Suche dir drei Eiskugelsorten aus und male die drei Eiskugeln oben an. Welche verschiedenen Kombinationen gibt es, die Eiskugeln in die Waffeln zu stapeln? Finde alle Möglichkeiten! Jede Eissorte MUSS einmal in jeder Waffel auftauchen!

Eis



Suche dir zwei Eiskugelsorten aus und male die beiden Eiskugeln oben an. Welche verschiedenen Kombinationen gibt es, die Eiskugeln in die Waffeln zu stapeln? Finde alle Möglichkeiten! Jede Eissorte darf auch mehrfach verwendet werden (z.B. ein Eis NUR mit Vanille)!

Eis

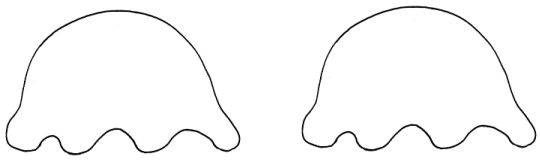



Suche dir drei Eiskugelsorten aus und male die drei Eiskugeln oben an. Welche verschiedenen Kombinationen gibt es, die Eiskugeln in die Waffeln zu stapeln? Finde alle Möglichkeiten! Jede Eissorte darf auch mehrfach verwendet werden (z.B. ein Eis NUR mit Vanille)!

Eis



A a	B b	C c	D d	E e	F f	G g	H h	I i	J j

K k	L l	M m	N n	O o	P p	Q q	R r	S s	T t

U u	V v	W w	X x	Y y	Z z	Ä ä	Ö ö	Ü ü	ß

Wie groß ist der Wert deines Namens?

_____€ _____ ct

Wie groß ist der Wert dieser Wörter?

Wörter	Wert
Geld	1,40 Euro
Bank	
Währung	
Kasse	
Dollar	
Franken	
Euro	
kaufen	
wechseln	
teuer	
sparen	

Wörter	Wert
Schule	
Bleistift	
Wandtafel	
Kreide	
Maßstab	
Unterricht	
Pause	
Ferien	
lernen	
studieren	
Hausaufgaben	

Markiere das ‚teuerste' Wort.



Trage in der linken Tabelle die Wörter zu den Bildern ein und ‚berechne' sie.
In der rechten Tabelle erfindest und ‚berechnest' du selber Wörter.

Wörter	Wert

Wörter	Wert



Zusatzaufgaben:

Suche ein Wort, das mindestens 5 Euro ‚kostet'. _____

Findest du ein Wort, das mehr als 10 Euro ‚wert' ist? _____

Wer findet am meisten Wörter, die genau 1 Euro ‚wert' sind?

_____

_____

_____

Erstelle eine gleiche Tabelle mit Noten und Münzen und erfinde Aufgaben dazu.

A a	B b	C c	D d	E e	F f	G g	H h	I i	J j

K k	L l	M m	N n	O o	P p	Q q	R r	S s	T t

U u	V v	W w	X x	Y y	Z z	Ä ä	Ö ö	Ü ü	ß

Auf dem Bauernhof der Familie Kalt.

1. Frau Kalt hat letzte Woche 8 Säcke Kartoffeln geerntet, 7 Säcke Zwiebeln und 6 Säcke Karotten.

Wie viele Säcke hat sie im Ganzen geerntet? _____

2. Von den Apfelbäumen pflückte ihr Sohn 24 Körbe voll Äpfel, aber auf dem Heimweg gingen 3 Körbe verloren.

Wie viele Körbe bleiben noch? _____

3. Die Hühner haben 27 Eier gelegt und Frau Kalt braucht 8 davon für einen Kuchen, den sie backt.

Wie viele Eier bleiben noch? _____

Zeichne und rechne.

1. Auf der Wiese grasen 12 Kühe, 9 Kälber und 4 Pferde.



Wie viele Tiere sind das im Ganzen? _____

2. In Frau Kalts Gemüsegarten stehen 26 Tomatenpflanzen, im Garten ihrer Nachbarin sind es 9 Stück.

Wie viele Tomatenpflanzen hat Frau Kalt mehr? _____

3. Mariella Kalt möchte einen Fruchtsalat zubereiten. Sie hat 15 Erdbeeren gepflückt, 12 Brombeeren und nur 2 Himbeeren.



Wie viele Beeren hat sie insgesamt gepflückt? _____

Rechne und zeichne, wenn nötig.

1. Die Zwillinge Ruth und Daniel Kalt gehen in den Wald, um Pilze zu sammeln. Ruth findet 38 Pilze, Daniel nur 13.

Wer hat mehr Pilze gesammelt? _____

Wie viele mehr? _____

2. Frau Kalt hat für ihre Familie einen Korb mit 36 roten Äpfeln hingestellt. Am Ende der Woche zählt sie die verbliebenen Äpfel, es sind 15 Stück.

Wie viele Äpfel wurden gegessen? _____

3. Frau Kalt strickt für ihre 3 Kinder je eine Jacke. Auf jede Jacke näht sie 8 Knöpfe.

Wie viele Knöpfe braucht sie im Ganzen? _____

Am Sporttag.

1. Die Stafettenläufer stellen sich in 3 Reihen auf.
   In jeder Reihe sind 6 Kinder.
   Wie viele Kinder messen sich im Stafettenlauf? _____

2. Neben dem Siegerpodest sind die Preise aufgestellt:
   3 Pokale, 9 Plaketten und 38 Medaillen.
   Wie viele Preise werden insgesamt vergeben? _____

3. Die 8 größeren Schüler, die am Marathonlauf mitmachen, bekommen unterwegs je 4 Getränke.
   Wie viele Getränke werden für die Läufer bereitgestellt? _____

4. Für den Weitsprung haben sich 11 Kinder angemeldet, für den Hochsprung 25.
   Wie viele Kinder sind das insgesamt? _____

5. Beim Hindernisrennen machen 5 Mannschaften zu je 10 Kindern mit.
   Wie viele Sportlerinnen und Sportler sind also dabei? _____

6. Auf der Wiese machen die Mädchen Aufwärmübungen: Es sind 6 Gruppen zu je 7 Mädchen.
   Wie viele Mädchen machen bei den Übungen mit? _____